Name _____ Gruppe_____

Arbeitsblatt

Die Linien, die Formen und die Körper

Ein Würfel ist ein _ _ _ _ _ _

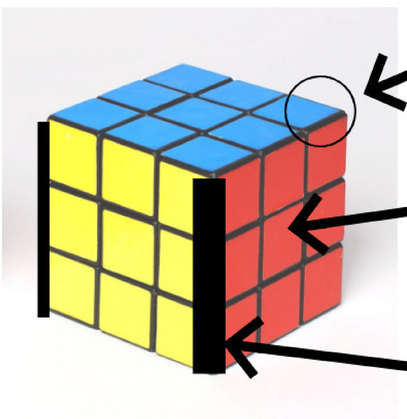

Das ist eine E _ _ _

Das ist eine F _ _ _ _ _

Das ist eine K _ _ _ _

Ein W _ _ _ _ _ _ hat ...

8 _ _ _ _ _.

12 _ _ _ _ _ _.

__ Flächen.

Die Flächen sind 6 gleich große Quadrate.

Das sind **2D** Figuren. Sie haben eine Fläche

Schreibe die Namen

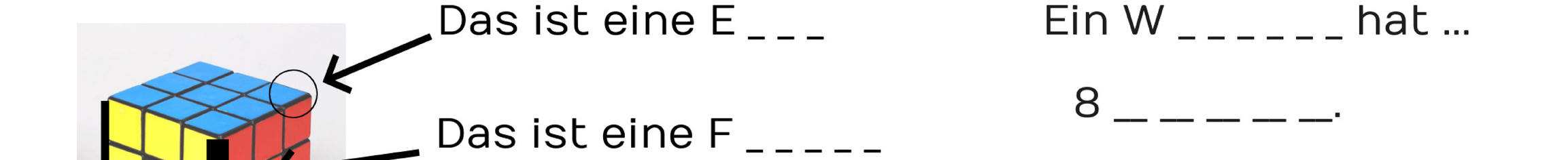

_____

_____

Das sind **3D** Figuren. Sie haben viele Flächen

Schreibe die Namen

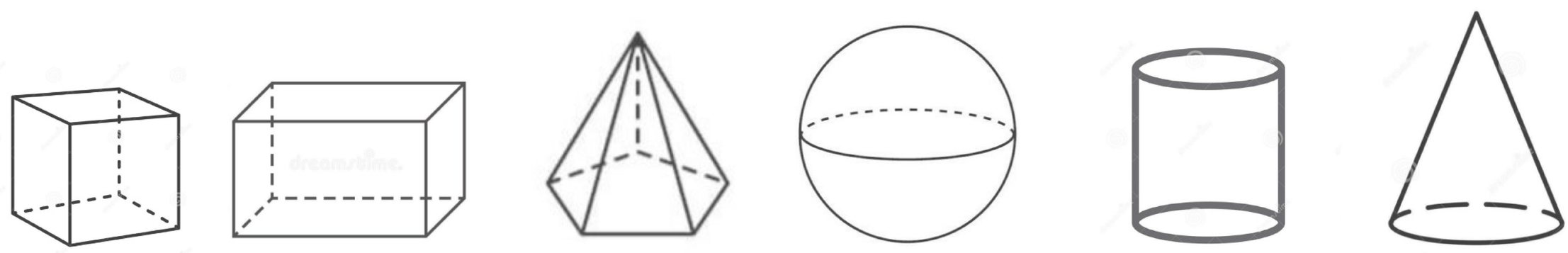

_____